Baugewerbliche Berufsschule Zürich

BBZ

Montag, 13. Juni 2022

2022/4P

Qualifikationsverfahren Allgemeinbildung

Schlussprüfung (SP) für 4-jährige Lehren

B

Grundwissen, Schreiben, Lesen, Grafiken

Kontrollnummer _____

Name _____

Vorname _____

Beruf _____

Klasse _____

Maximalpunktzahl **100**

Erreichte Punktzahl _____

Note _____

_____

Unterschrift der Examinatorin / des Examinators

_____

(Bei Note unter 4.0)
Unterschrift der Expertin / des Experten

Informationen zur Prüfung

Prüfungsinhalt

Sie werden sich während dieser Prüfung mit den Themen **«Versicherungen»**, **«Geld und Konsum»**, **«Zeitgeschehen Wirtschaft»** und **«Zeitgeschehen Politik»** befassen und dabei unterschiedliche Aufgabenstellungen bewältigen. Für gewisse Aufgaben benötigen Sie ein Beiblatt.

Prüfungsdauer

120 Minuten

Bewertung

Die Bewertung entspricht den Angaben (Punkten) am Ende der jeweiligen Aufgabe.

Punkte	95.0–100.0	**Note**	6.0	Qualitativ und quantitativ sehr gut
	85.0–94.5		5.5	
	75.0–84.5		5.0	Gut, zweckentsprechend
	65.0–74.5		4.5	
	55.0–64.5		4.0	Den Mindestanforderungen entsprechend
	45.0–54.5		3.5	
	35.0–44.5		3.0	Schwach, unvollständig
	25.0–34.5		2.5	
	15.0–24.5		2.0	Sehr schwach
	5.0–14.5		1.5	
	0.0–4.5		1.0	Unbrauchbar oder nicht ausgefüllt

Erlaubte Hilfsmittel

Taschenrechner
Duden der deutschen Rechtschreibung oder vergleichbare Wörterbücher
ZGB, OR (inkl. Alphabetisches Stichwortverzeichnis) und Gesetzessammlung

Hinweis

Die Benutzung von Smartphones, Smartwatches, Tablets, Notebooks und Ähnlichem ist für die ganze Dauer der Prüfung untersagt.

Versicherungen

Sozialversicherungen

Lesen Sie die untenstehende Lohnabrechnung.
Beantworten Sie anschliessend die Fragen 1a bis 1c.

Gebäudetechnik GmbH
Zürcherstrasse 1
8000 Zürich

Yemane Tekie
Musterstrasse 5
5800 Musterhausen

Lohnabrechnung November 2021
AHV-Nr. 756.1560.9860.97

Zürich, 25. Nov. 2021

Lohn		**CHF**	**4100.00**
Grundlohn		CHF	4100.00
Familienzulagen			
Abzüge			
AHV/IV/EO	10,6 %	CHF	434.60
ALV	1,1 %	CHF	45.10
NBU	1,5 %	CHF	61.50
Total der Abzüge		CHF	541.20
Nettolohn		**CHF**	**3558.80**
Total Auszahlung		**CHF**	**3558.80**

Überweisung am 25. Nov. 2021
auf Konto 8324.764-C der Zürcher Kantonalbank

1a Welchen Versicherungen sind die Lohnabzüge zuzuordnen?
Kreuzen Sie die korrekte Antwort an.

Die Lohnabzüge gehören zu den . . .

- ☐ Privatversicherungen.
- ☐ Sozialversicherungen.
- ☐ Sachversicherungen.
- ☐ Staatsversicherungen.
- ☐ Haftpflichtversicherungen.

0.5 P

Punktzahl pro Seite

1b Ordnen Sie zu: Welche Leistung wird von welcher Versicherung erbracht?

AHV	Die Versicherung bezahlt Spitalkosten, wenn man wegen eines Sportunfalls behandelt werden musste.
IV	Die Versicherung zahlt eine monatliche Rente, wenn man pensioniert ist.
EO	Die Versicherung zahlt Umschulungskosten, wenn jemand beispielsweise wegen eines Unfalls nicht mehr im erlernten Beruf arbeiten kann.
NBU	Die Versicherung zahlt 80 % des Erwerbseinkommens während des Vaterschaftsurlaubs.

2 P, je 0.5 P

1c Erklären Sie, wie das Solidaritätsprinzip funktioniert.
Nehmen Sie dafür eine konkrete Versicherung aus der obigen Lohnabrechnung.
Formulieren Sie korrekte Sätze.

_____

_____

_____

_____

_____

_____

1 P
0.5 P für die Erklärung
0.5 P für korrekte Sätze

Krankenkasse

2a Ergänzen Sie den Lückentext mit den vorgeschlagenen Begriffen aus der unten stehenden Aufzählung. Achtung: Zwei Begriffe bleiben übrig.

Franchise, Gesundheitsbeitrag, Police, Prämie, Krankenversicherung, Selbstbehalt

Diego ist 22 Jahre alt. Er hat mit der Helsana einen Vertrag abgeschlossen. Diesen Vertrag nennt man üblicherweise _____. Damit Diego im Krankheitsfall Leistungen erhält, zahlt er monatlich eine _____. Doch obwohl die obligatorische Krankenversicherung grundsätzlich alle Behandlungen bezahlt, geht ein Teil der Kosten zu Lasten von Diego. Denn jede*r Versicherte*r hat eine jährliche _____. Diesen Fixbetrag muss Diego pro Jahr selber bezahlen. Danach muss er auf den Restbetrag noch einen _____ von 10 % der Behandlungskosten zahlen.

2 P, je 0.5 P

Punktzahl pro Seite

2b Krankenkassenprämien sind teuer. Wie können Sie persönlich bei der Krankenkassenprämie der Grundversicherung sparen?

Kreuzen Sie zwei Sparmöglichkeiten an.

- ☐ das HMO-Modell wählen
- ☐ gesund bleiben
- ☐ die Franchise erhöhen
- ☐ den Selbstbehalt erhöhen

1 P, je 0.5 P (pro falschem Kreuz 0.5 P Abzug)

Berufsunfallversicherung

3 Studieren Sie die Grafik. Vervollständigen Sie die Sätze.

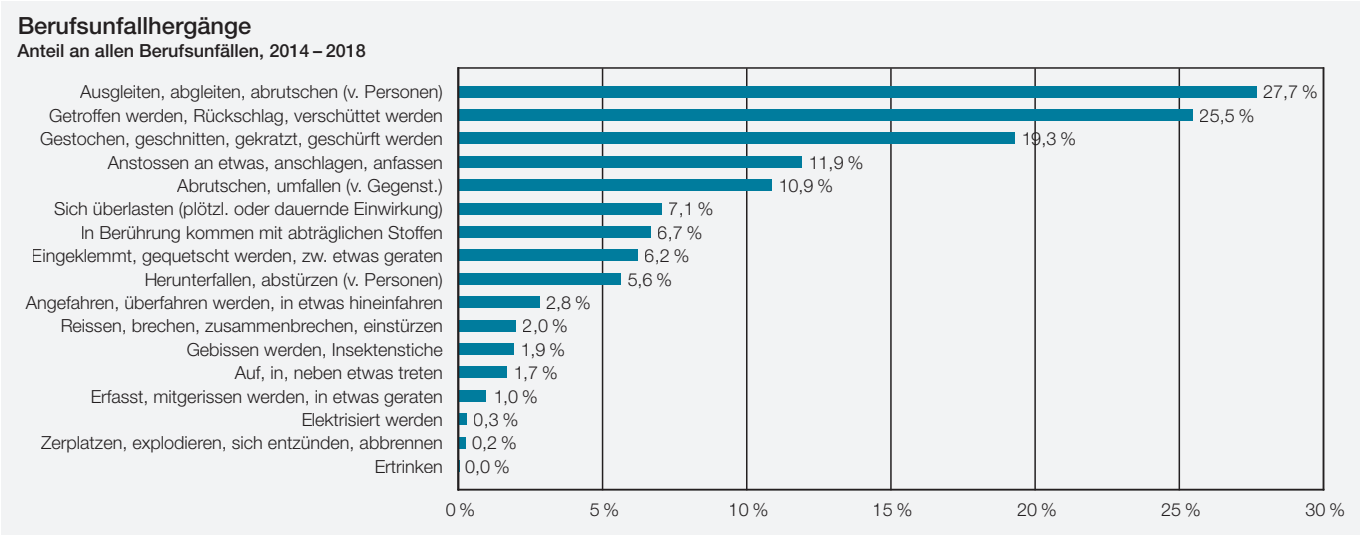

Rund ein Viertel der Berufsunfälle _____

_____

Wegen Überlastung _____

Zu den seltensten 1.5 % der Berufsunfälle _____

_____

_____

_____

3 P
1.5 P für korrekte Inhalte
1.5 P für korrekte Sätze

Punktzahl pro Seite

Demographie

Betrachten Sie die Grafik zum Altersaufbau der Schweizer Bevölkerung.
Bearbeiten Sie anschliessend die Aufgaben 4a und 4b.

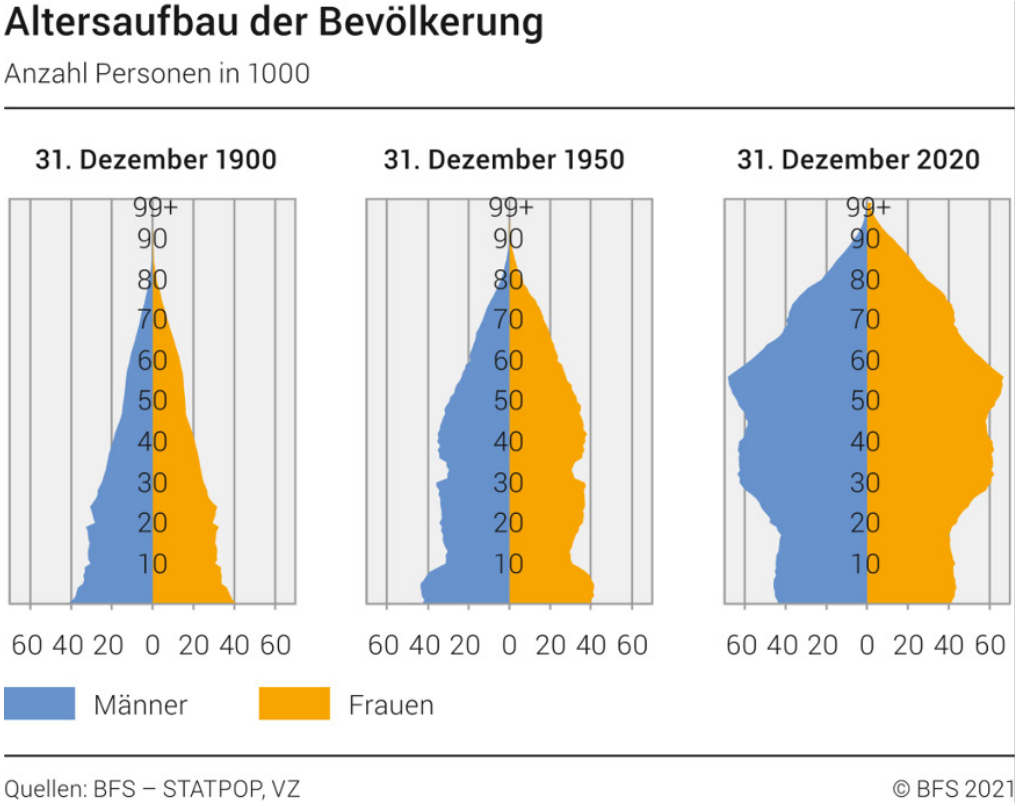

4a Kreuzen Sie die jeweils korrekte Aussage zu den Grafiken an.

☐ Die Grafiken zeigen, wie sich die Altersstruktur innerhalb der Bevölkerung entwickelt hat.
☐ Die Grafiken zeigen, wie viele Kinder die Frauen über die Zeit bekommen haben.

☐ Im Jahr 1900 gab es mehr Menschen unter 40 Jahren als solche über 40 Jahre.
☐ Im Jahr 1900 gab es mengenmässig mehr Babys als in den Jahren 1950 und 2020.

☐ Im Jahr 1950 gab es mehr Menschen unter 20 Jahren als solche über 20 Jahre.
☐ Im Jahr 1950 gab es mehr Arbeitstätige als Pensionierte.

☐ Im Jahr 2020 war die grösste Bevölkerungsgruppe zwischen 30 und 60 Jahre alt.
☐ Im Jahr 2020 war rund ein Drittel der Bevölkerung pensioniert.

2 P, je 0.5 P

4b Erläutern Sie in zwei bis drei korrekten Sätzen:

– die Entwicklung der Bevölkerungsstruktur in 20 bis 30 Jahren.
– die daraus resultierende Problematik der AHV-Finanzierung.

3 P
1 P für korrekte Inhalte
2 P für korrekte Sätze

Punktzahl pro Seite

Soziale Sicherheit

Lesen Sie den Zeitungsartikel zum Thema Corona. Bearbeiten Sie anschliessend die Aufgaben 5a und 5b.

Warum sich arme Menschen eher mit Corona anstecken – und häufiger ins Spital müssen

Seit Beginn der Pandemie hören wir Sätze wie: «Vor dem Virus sind wir alle gleich» oder «Das Virus macht keinen Halt vor Grenzen» oder «Wir sitzen alle im selben Boot».

Immer mehr Studien stellen aber fest, dass es deutliche Unterschiede zwischen Arm und Reich gibt. Arme Menschen sind besonders von der Pandemie betroffen. Nicht nur wirtschaftlich, durch Jobverlust, schwierige Arbeitsbedingungen oder tiefe Einkommen, sondern auch gesundheitlich. Sie erkranken öfter an Sars-CoV-2 und haben ein höheres Risiko, dass die Krankheit bei ihnen schwerer verläuft.

In Deutschland sah man zum Beispiel deutlich, dass in Stadtteilen mit hoher Wohnraumdichte, niedrigem Durchschnittseinkommen und höheren Armutsquoten die Neuinfektionsquoten höher sind. Forscher in Berlin bestätigen: Arbeitslosigkeit, ein niedriges Haushaltseinkommen, enge Wohnverhältnisse und der Migrationshintergrund sind Faktoren, die das Risiko einer Infektion steigen lassen.

Doch bei Armutsbetroffenen ist nicht nur die Infektionsrate höher, sondern sie machen auch öfter einen schweren Krankheitsverlauf durch. Zwei deutsche Medizinsoziologen stellten fest, dass Sozialhilfe-Empfänger doppelt so häufig mit einer Corona-Infektion ins Spital mussten wie Erwerbstätige. Die Studienautoren vermuten, dies liege an den chronischen Vorerkrankungen, die bei armutsbetroffenen Personen verbreiteter sind.

Auch in der Schweiz zeigen Statistiken: Armut macht krank

Auch in der Schweiz zeigt eine Studie, dass dort, wo Menschen aus sozial benachteiligten Schichten wohnen, sich das Virus schneller verbreiten und länger wüten konnte. Warum das so ist, liege auf der Hand, sagt Oliver Hümbelin, Professor an der Berner Fachhochschule. «Wer nicht im Home – Office arbeiten kann, sondern täglich mit dem Bus zur Arbeit muss oder in einer Umgebung lebt, wo die Wohnverhältnisse beengt sind, der kann sich weniger zurückziehen und ist dem Virus auch mehr ausgesetzt.»

Dass Armut krank machen kann, ist hinlänglich bekannt. Laut der aktuellen Gesundheitsbefragung des Bundesamtes für Statistik leiden arme Personen in der Schweiz häufiger unter Bluthochdruck, einem hohen Cholesterinspiegel, an Diabetes, unter Asthma oder an Depressionen. Sie haben ein höheres Risiko für einen Herzinfarkt und Herzprobleme. Auch starke körperliche Beschwerden sind häufiger. In der Statistik heisst es: «Trotz eines qualitativ hochstehenden Gesundheitssystems, das dank der obligatorischen Krankenversicherungen grundsätzlich für alle zugänglich ist, gibt es in der Schweiz nach wie vor Ungleichheiten beim Gesundheitszustand.»

Quelle: watson, 28. 3. 21, Autorin: Sarah Serafini. Gekürzt und redigiert von Nadine Vetterli

5a Kreuzen Sie an, welche der folgenden Aussagen laut Text richtig oder falsch sind oder im Text nicht erwähnt werden.

Aussage	Richtig	Falsch	Im Text nicht erwähnt
Corona trifft arme Menschen besonders hart, weil sie sich dem Virus stärker aussetzen müssen.	☐	☐	☐
Als Folge von Corona konsumieren die Leute mehr Drogen, was zu mehr Vorerkrankungen führt.	☐	☐	☐
Eine Studie aus der Schweiz stellt fest, dass Menschen mit Migrationshintergrund ein höheres Risiko haben, sich mit Corona anzustecken.	☐	☐	☐
Laut dem Bundesamt für Statistik sind Menschen mit geringem Einkommen stärker gesundheitsgefährdet.	☐	☐	☐

2 P, je 0.5 P

Punktzahl pro Seite

5b «Trotz eines qualitativ hochstehenden Gesundheitssystems, das dank der obligatorischen Krankenversicherung grundsätzlich für alle zugänglich ist, gibt es in der Schweiz nach wie vor Ungleichheiten beim Gesundheitszustand.» Erklären Sie das Zitat des Bundesamts für Statistik mit drei Aussagen. Formulieren Sie korrekte Sätze.

3 P
0.5 P pro inhaltlich korrekte Aussage
1.5 P für korrekte Sätze

6 Betrachten Sie die Bilder auf dem Zusatzblatt 1. Kinder von der 3. bis 7. Klasse aus Urtenen-Schönbühl haben diese für die Ausstellung mit dem Titel «arm – ausgeschlossen?» gemalt.[1]

1. Wählen Sie eines der vier Bilder auf dem Zusatzblatt 1.
2. Beschreiben Sie, wie das Kind «Armut» darstellt.
3. Erklären Sie, was Armut in der Schweiz bedeutet. Verwenden Sie dabei mindestens einen der folgenden Begriffe: Existenzminimum, Wohlfahrt, Wohlstand.

Erwarteter Umfang: sechs bis sieben Sätze.
Formulieren Sie korrekte Sätze. Verknüpfen Sie die Sätze.
Beispiele für Satzverknüpfungsmittel: weil, daher, obwohl, dennoch, sowohl … als auch, einerseits … andererseits, beispielsweise …

5 P

Punktzahl pro Seite

Geld und Konsum

Verschuldung

Lesen Sie den folgenden Text zum Thema Verschuldung und bearbeiten Sie anschliessend die Aufträge 1a–1c.

Haben heutige Jugendliche ein deutlich höheres Kreditrisiko?

Während man früher noch auf etwas sparte und es sich dann leistete, wenn das Geld vorhanden war, wird heute oftmals konsumiert und erst später bezahlt. Finanzinstitute bieten mit Leasing und Konsumkrediten die Möglichkeit, sinnvolle Anschaffungen (wie z. B. Möbel oder Fahrzeuge) zu tätigen, ohne monate- oder jahrelang daraufhin sparen zu müssen. Hier besteht am ehesten die Gefahr, dass junge Erwachsene ihre finanziellen Möglichkeiten überschätzen. Es erstaunt deshalb nicht, dass Jugendliche und junge Erwachsene von Finanzinstituten (Banken und Kreditanbietern) als deutlich höheres Kreditrisiko gesehen werden.

Mit dem Auszug aus der elterlichen Wohnung folgt oft das «böse Erwachen»: Auf sich allein gestellt, fällt es vielen jungen Erwachsenen schwer, über den Monat und die nächste Rechnung hinaus zu planen. Sie vergessen, Rückstellungen zu machen – für Versicherungsprämien oder Steuern.

Durch das Online-Shopping können viele den Verlockungen unserer Konsumwelt nicht widerstehen. Laut Experten führen zwei Faktoren dazu: das auffällige Markenbewusstsein und die hohe Konsumbereitschaft in dieser Altersgruppe.

Dies sind alles Gründe, warum junge Menschen in die Schuldenfalle tappen.

Eigentlich wären Finanzinstitute verpflichtet, bei einer Kreditvergabe verantwortungsvoll zu handeln. Denn viele Konsument*innen sind überfordert mit der Kompliziertheit von beispielsweise Konsumkrediten oder Kreditkarten: Sie können oft nicht klar erkennen, welche Kosten bei einem Kredit zusammenkommen können – vor allem, wenn dieser zu spät zurückbezahlt wird.

Quelle: Financemission.ch, 2016, Tresor-Beitrag von Nirmala Alther. Gekürzt und redigiert von Chantal Weber

1a Beurteilen Sie, ob die folgenden Aussagen in Bezug auf den obigen Text richtig oder falsch sind. Kreuzen Sie an.

Aussage	Richtig	Falsch
Die Konsumbereitschaft der heutigen Jugend ist im Vergleich zu früher grösser.	☐	☐
Für Finanzinstitute ist die Kreditvergabe an Jugendliche ein sehr sicheres Geschäft.	☐	☐
Kredite sind oft verbunden mit zusätzlichen Kosten, die man auf den ersten Blick nicht erkennt.	☐	☐

1.5 P, je 0.5 P

1b Im Text werden verschiedene Verschuldungsgründe genannt. Welche Ursachen fallen Ihnen persönlich ein? Nennen Sie zwei Beispiele aus Ihrem Alltag.

1 P, je 0.5 P

Punktzahl pro Seite

c Erklären Sie in eigenen Worten die nachfolgenden Begriffe aus dem obigen Text.

Kreditrisiko

_____

_____

_____

_____ 0.5 P

Rückstellungen

_____

_____

_____

_____ 0.5 P

2 Verbinden Sie die Begriffe mit der jeweils passenden Aussage.

Nettolohn	Kann ich als Einnahmen im Budget aufführen.
Variable Kosten	Für Zahnarzt, Geschenke, Unvorhergesehenes
Rückstellungen	Machen ca. 10 % aus.
AHV, IV, EO	Diese kann ich beeinflussen.

2 P, je 0.5 P

3a Patrick hat einen Brutto-Jahreslohn von CHF 53300.– (inkl. 13. Monatslohn). Nach allen Abzügen bleiben ihm monatlich knapp CHF 4000.–. Zudem erhält er monatlich CHF 200.– Spesen. Er fährt kein Auto, besitzt aber ein Velo. Er wohnt mit seinem Freund Max in einer Wohngemeinschaft.

Er rechnet mit folgenden Ausgaben:

Jährliche Ausgaben		**Monatliche Ausgaben**	
Privathaftpflichtversicherung:	CHF 240.–	Mietanteil (inkl. Nebenkosten):	CHF 800.–
SBB-Abo:	CHF 2650.–	Krankenkasse:	CHF 380.–
Reisen:	CHF 1500.–	Handy-Abo fix	CHF 55.–
Geschenke:	CHF 600.–	Kleider und Schuhe:	CHF 150.–
Steuern:	CHF 4100.–	Ausgang und auswärts essen:	CHF 500.–
		Anteil Internet- und TV-Anschluss:	CHF 25.–
		Regelmässig 1 Mal zum Coiffeur:	CHF 60.–

Punktzahl pro Seite

Patrick hat schon mal angefangen, die Kosten aufzulisten. Aber bei einigen Posten ist er nicht sicher, wo er sie aufführen soll. Helfen Sie ihm, die Vorlage fertig auszufüllen.

Einnahmen	**Angaben pro Monat und in Franken (auf einen Franken runden!)**
Nettolohn	CHF 4000.–
Spesen	CHF 200.–
Total Einnahmen pro Monat	CHF 4200.–
Monatliche Ausgaben	
Fixkosten	
Anteil Internet und TV-Anschluss	CHF 25.–
Handy-Abo fix	CHF 55.–
Variable Kosten	
Ausgang und auswärts essen	CHF 500.–
Coiffeur	CHF 60.–
Rückstellungen	
SBB-Abo (jährlich CHF 2650.–)	CHF 221.–
Steuern (jährlich CHF 4100.–)	CHF 342.–
Privathaftpflichtversicherung (jährlich CHF 240.–)	
Geschenke (jährlich CHF 600.–)	
Total aller monatlichen Ausgaben	
Überschuss / (ggf. Minus)	**+ CHF 1472.–**

4 P

3b Nennen Sie drei weitere Ausgaben-Posten, die Patrick aufführen sollte. Kreuzen Sie an, um welche Art von Kosten (variable, fixe, Rückstellungen) es sich bei Ihren Beispielen handelt. Verwenden Sie die folgende Tabelle. Orientieren Sie sich am Beispiel.

Ausgaben-Posten	**Fixkosten**	**Variable Kosten**	**Rück-stellungen**
Beispiel: Jährliche Mobiliarversicherung	☐	☐	☒
	☐	☐	☐
	☐	☐	☐
	☐	☐	☐
	☐	☐	☐

2 P, je 0.5 P

Punktzahl pro Seite

3c Nachdem Sie nun in Aufgabe 3b Patricks Budget ergänzt haben:
Wie beurteilen Sie sein Budget? Nehmen Sie in drei korrekten Sätzen begründend Stellung.
Erläutern Sie Ihre Meinung mittels vier verschiedener Beispiele aus den Aufgaben 3a und 3b.

3 P

Kaufvertrag

Lesen Sie die beiden Fälle und lösen Sie anschliessend die Aufträge.
Manuela kauft bei Bershka ein blaues Sommerkleid. Nach dem ersten Mal Waschen fühlt sich das Teil irgendwie zu kurz an. Zum Glück hat sie die Quittung aufbewahrt – sie geht also an die Verkaufsstelle und schildert der Verkäuferin das Problem. Ein Vergleich mit einem identischen Exemplar zeigt, dass sich Manuela nicht getäuscht hat – das Kleid ist mindestens 5 cm kürzer.

Tobias bestellt online die neue PS5 bei Mediamarkt. Das Paket wird innerhalb der Lieferfrist per Kurierdienst geliefert. Tobias nimmt es entgegen und bestätigt den Erhalt mit seiner Unterschrift. Weil er noch am gleichen Tag für zwei Wochen nach Südfrankreich fährt, will Tobias das Paket erst nach seinen Ferien öffnen.
Als er zwei Wochen später die PS5 auspackt, entdeckt er eine Beule am Gehäuse.

Punktzahl pro Seite

4a Beurteilen Sie die folgenden Aussagen zu den obigen Fällen. Nehmen Sie die Auswahl an OR-Artikeln auf dem Zusatzblatt 2 zu Hilfe. Begründen Sie Ihre Ansicht mit den korrekten Gesetzesartikeln (Auswahl: OR 201, 205, 206).

Aussage	Richtig	Falsch	OR-Artikel zur Begründung
Manuela kann wählen zwischen Ersatz, Minderung (Rabatt) oder Wandelung (Geld zurück).	☐	☐	
Tobias hat seine Prüfungspflicht wahrgenommen.	☐	☐	

2 P, je 0.5 P

4b Tobias beschliesst, dem Unternehmen den Mangel an der PS5 in Form einer Mängelrüge zu melden. Leider hat er noch nie einen solchen Brief verfasst. Zum Glück kennt er Sie – helfen Sie Tobias.

Verfassen Sie eine Geschäfts-E-Mail, in der Sie
1. den Schaden kurz beschreiben.
2. erklären, warum Sie den Schaden erst jetzt melden.
3. darum bitten, dass der Laden Ihnen die PS5 ersetzt.

Absender: Tobias
Empfänger: Mediamarkt
Betreff: Mängelrüge

Bewertungsschema Geschäfts-E-Mail:

- **Punkte 1, 2 und 3 sind dargelegt: 1.5 P**
- **Anforderungen an Geschäfts-E-Mail (Anrede, Text, Gruss, Unterschrift) sind erfüllt: 0.5 P**
- **Angemessene Länge und höfliche Sprache: 1 P**
- **Korrekte Rechtschreibung, Satzgrammatik und Satzzeichensetzung: 1 P**

4 P

Punktzahl pro Seite

Lesen Sie den folgenden Fall und lösen Sie die Aufträge.
Carlo wird zwanzig und plant eine Party mit 50 Verwandten und Freunden. Dafür bestellt er in der Dorf-Metzg 50 Bratwürste zum Kaufpreis von total CHF 100.–. Doch an seinem grossen Tag wartet Carlo vergebens auf die Lieferung. Als er in der Metzgerei anruft, erfährt Carlo, dass seine Bestellung vergessen wurde.
In der Not gehen seine Eltern in die Metzgerei im Nachbardorf. Dort kann ihnen der Metzger mit 30 Bratwürsten à CHF 3.– aushelfen. Für die übrigen 20 Gäste kaufen Carlos Eltern zusätzlich Grilladen im Wert von CHF 60.–. Trotz diesem Stress wird die Party ein Erfolg und Carlo ist glücklich.
Den Metzger, der nicht geliefert hat, will Carlo aber nicht einfach so davonkommen lassen.

5a Welche Rechte hat Carlo? Begründen Sie stichwortartig und mit passenden OR-Artikeln. Nehmen Sie die Auswahl an OR-Artikeln auf dem Zusatzblatt 2 zu Hilfe (Auswahl: OR 107–109).

3 P, je 1.5 P

Carlos Eltern haben ihrem Sohn zum Geburtstag kabellose Kopfhörer bei Elektro.ch bestellt.
Leider sind auch diese nicht rechtzeitig zum Geburtstag eingetroffen.

5b Welche Möglichkeit haben die Eltern? Begründen Sie stichwortartig und mit den passenden OR-Artikeln. Nehmen Sie die Auswahl an OR-Artikeln auf dem Zusatzblatt 2 zu Hilfe (Auswahl: OR 107–109).

2 P, je 1 P

Punktzahl pro Seite

Zeitgeschehen Wirtschaft

Bedürfnisse und Güter

1a Kreuzen Sie bei jedem Bedürfnis die entsprechende Bedürfnisart an.

	Grundbedürfnis	Wahlbedürfnis
Anton hat am Morgen nach dem Aufstehen Hunger.	☐	☐
Arlind will diesen Sommer nach Dubai fliegen.	☐	☐
Fiona ist seit gestern obdachlos und braucht eine Unterkunft.	☐	☐
Ahmed kann nicht mehr richtig atmen und muss ins Spital.	☐	☐

2 P, je 0.5 P

1b Viele Bedürfnisse werden mit wirtschaftlichen Gütern befriedigt. Vervollständigen Sie die nachfolgenden Sätze, indem Sie zu jedem Bedürfnis angeben, wie dieses mit einem Konsumgut (Dienstleistung, Verbrauchsgut/Gebrauchsgut) befriedigt werden kann.

Beispiel:
– Bedürfnis nach Essen
Ich befriedige dieses Bedürfnis, indem ich **ein Brot kaufe.**

– Bedürfnis nach Sauberkeit
Ich befriedige dieses Bedürfnis, indem ich

_____

– Bedürfnis nach Unterhaltung
Ich befriedige dieses Bedürfnis, indem ich

_____

– Bedürfnis nach einem besseren Job
Ich befriedige dieses Bedürfnis, indem ich

_____

1.5 P, je 0.5 P

Punktzahl pro Seite

1c Wenn viele Menschen dieselben Individualbedürfnisse haben, entstehen Kollektivbedürfnisse. Ergänzen Sie die nachfolgende Tabelle mit entsprechenden Individual- und Kollektivbedürfnissen.

Individualbedürfnisse	Kollektivbedürfnisse
In der Stadt sicher Velo fahren	
	Spital
Bildung	
	Stadtpark

2 P, je 0.5 P

Gütertransport

Studieren Sie die Grafiken und Abbildungen zum Güterverkehr 2020 auf dem Zusatzblatt 3.
Lösen Sie dazu die Aufgaben 2a und 2b.

2a Formulieren Sie nun in jeweils ein bis zwei korrekten Sätzen zu folgenden Sachverhalten eine Aussage.

– Entwicklung des Gütertransports auf den Strassen im Vergleich zum Gütertransport auf den Schienen:

2 P
1 P für Inhalt
1 P für korrekte Sätze

– Gütertransporte mit Personenwagen:

2 P
1 P für Inhalt
1 P für korrekte Sätze

Punktzahl pro Seite

2b Erstellen Sie ein Säulendiagramm. Stellen Sie darin die Importe/Exporte per Flugzeug, Schifffahrt und Öl-Pipelines in Tonnen dar.

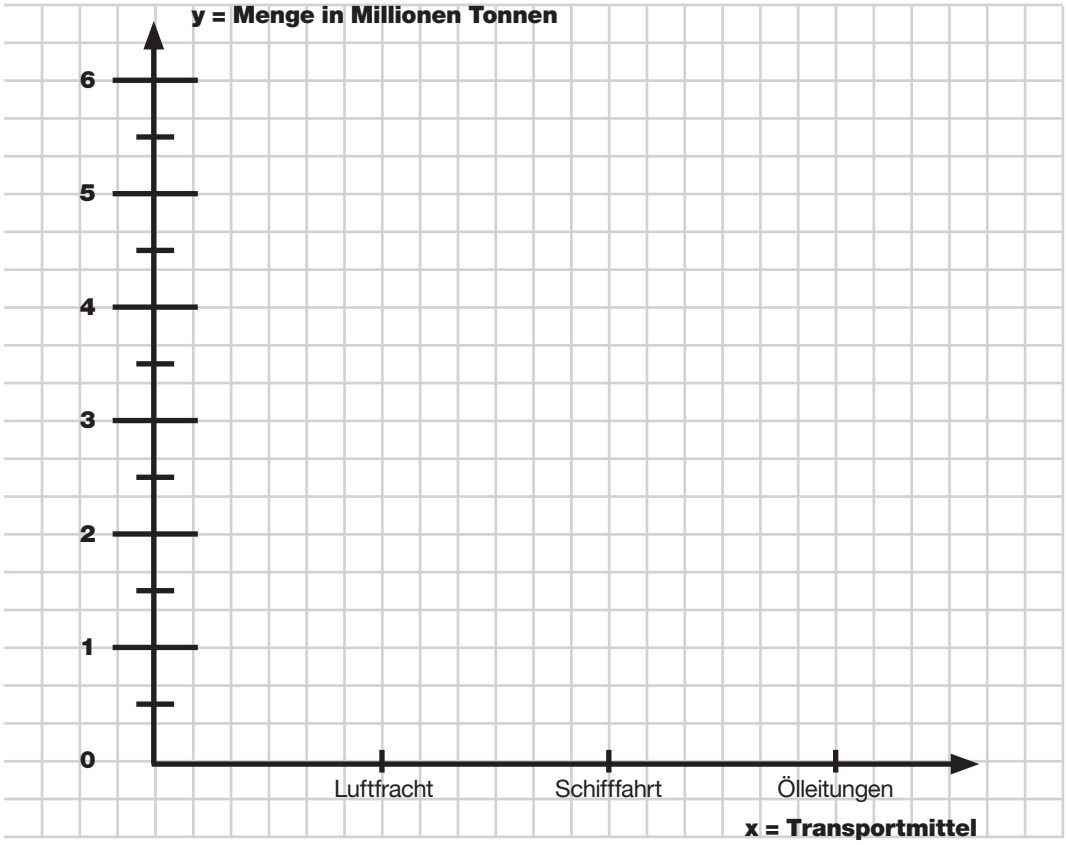

1.5 P, je 0.5 P

Angebot und Nachfrage

3a Vervollständigen Sie die angefangenen Sätze mit «grösser» oder «kleiner».

- Wenn der Preis steigt, dann wird die nachgefragte Menge _____
- Wenn der Preis steigt, dann wird die angebotene Menge _____
- Wenn der Preis sinkt, dann wird die nachgefragte Menge _____
- Wenn der Preis sinkt, dann wird die angebotene Menge _____

2 P, je 0.5 P

3b Erklären Sie mit den Begriffen «Angebot» und «Nachfrage» und «grösser als»:

warum Baustoffe (wie etwa Holz, Dämm-Material, Kunststoffe) im Jahr 2021 teurer geworden sind.

_____

warum die Hygiene-Masken im Frühling 2021 billiger geworden sind.

_____

2 P, je 1 P

Punktzahl pro Seite

Wirtschaftskreislauf und BIP

4a Zeichnen Sie anhand der nachfolgenden Angaben einen konkreten einfachen Wirtschaftskreislauf: Herr Studer arbeitet bei Elektro.ch. Er verdient CHF 4700.– im Monat. Zu Weihnachten kauft er für sich selbst bei seinem Arbeitgeber einen neuen Computer für CHF 2500.–.

3 P

4b Geben Sie bei jeder der nachfolgenden Aussagen an, ob das BIP in der Schweiz sinkt, gleich bleibt oder steigt.

Aussage	BIP sinkt	BIP bleibt gleich	BIP steigt
Ein Sanitär repariert nach Feierabend das WC eines Freundes.	☐	☐	☐
Ein Carosserie-Spengler repariert einen Hagelschaden an einem Fahrzeug.	☐	☐	☐
Ein Dealer verkauft ein Gramm Kokain an einen Banker.	☐	☐	☐
Nachbarn legen für sich einen gemeinsamen Salatgarten zur Selbstversorgung an.	☐	☐	☐

2 P, je 0.5 P

Punktzahl pro Seite

Lesen Sie den Ausschnitt aus dem «NZZ»-Artikel «Wenn sich Datschen und Dörfer selbst ernähren» und beantworten Sie anschliessend die Fragen in korrekten Sätzen.

Wenn sich Datschen[2] und Dörfer selbst ernähren

In Russlands Weiten kommt ein wirtschaftlicher Aufschwung nicht überall an, ein Abschwung aber auch nicht. An jenen Orten, die auch in guten Zeiten kaum zum offiziellen Wirtschaftskreislauf gehören, geht das Leben von der Konjunktur unbeeindruckt seinen gewohnten Gang. Abseits der grossen Städte, in abgelegenen und nur über Schotterpisten zu erreichenden Dörfern, gelten eigene ökonomische Gesetze. Für das typische Russland sind diese kleinen Dörfer aus handgezimmerten Häuschen mit eigenen Gemüsegärten repräsentativer als die Einkaufspassagen von Moskau.

Der eigene Garten mit Kohl oder Kartoffeln war immer ein wesentlicher Teil der Selbstversorgung auf dem Lande. Überschüsse werden schwarz verkauft oder gegen andere Waren und Dienstleistungen ausgetauscht. Manchmal wächst diese «Datscha-Wirtschaft» zu betrieblichen Ausmassen, freilich, ohne dass die Arbeit angemeldet oder versteuert wird. Soziologen der Moskauer Higher School of Economics fanden beispielsweise rund um die südrussische Stadt Labinsk Tausende Familien, die mit Heimarbeit, etwa mit der Herstellung von Textilien, Geld verdienen.

Die Wissenschaftler folgern, dass im Land ein sichtbarer und ein unsichtbarer Wirtschaftskreislauf existieren. Letzterer sei krisenresistent, organisiere und versorge sich selbst und sei nur auf sich selbst angewiesen. Die Kehrseite ist klar: Er sichert zwar die Lebensgrundlage seiner Teilnehmer, bietet aber keine echte Aussicht auf Fortschritt und Wohlstand.

Quelle: NZZ, 8.Juni 2015, Autor: Benjamin Triebe. Gekürzt und redigiert von Marcel Hegetschweiler

2 Datscha = Sommerhaus; ein eher einfach gebautes Haus, das vielen Russen als Ferienhaus für den Sommer dient. Ärmere Menschen bewohnen es ganzjährig.

5a Fassen Sie die «ökonomischen Gesetze» der «Datscha-Wirtschaft» in einem korrekten Satz zusammen.

1.5 P
1 P für Inhalt
0.5 P für korrekte Sätze

5b Erklären Sie in ein bis zwei korrekten Sätzen, warum laut Zeitungsartikel der unsichtbare Wirtschaftskreislauf krisenresistent ist.

1.5 P
1 P für Inhalt
0.5 P für korrekte Sätze

Punktzahl pro Seite

5c Im Artikel steht, dass der unsichtbare Wirtschaftskreislauf keine echte Aussicht auf Fortschritt und Wohlstand biete. Kommentieren und begründen Sie in zwei bis drei korrekten Sätzen diese Aussage. Bauen Sie den Begriff BIP in Ihren Kommentar ein.

2 P
1P für Inhalt (je 0.5 P für korrekte Anwendung des Begriffs BIP und für Begründung), 1 P für korrekte Sätze.

Zeitgeschehen Politik

National- und Ständeratswahlen 2019

Wahlbarometer: SVP und GLP legen in der Pandemie zu, die FDP verliert.
Das Wahlbarometer der SRG zeigt den Formstand der Parteien zwei Jahre nach den Wahlen. Trotz Pandemie bleibt die Parteienlandschaft erstaunlich stabil.
Welche Parteien sind in der Corona-Pandemie in der Gunst der Wählerinnen und Wähler gestiegen – und welche mussten Federn lassen? Zwei Jahre vor den nationalen Wahlen zeigt das SRG-Wahlbarometer mit 27 976 Teilnehmenden, wo die Parteien stehen.
Die Schweizer Parteienlandschaft bleibt erstaunlich stabil. Laut der Online-Umfrage würde die SVP zulegen, fänden bald Wahlen statt. Laut Umfrage könnte sie im Vergleich zu den Nationalratswahlen 2019 einen Prozentpunkt gewinnen und käme auf einen Wähleranteil von 26,6 Prozent. Auch die Grünliberalen reiten weiter auf der Erfolgswelle und kratzen mit 9,8 Prozent an der 10-Prozent-Marke (+2 Prozentpunkte).
Auf der Verliererstrasse sind die SP (–1 Prozentpunkt) und die FDP (–1,5 Prozentpunkte). Die SP bliebe mit 15,8 Prozent aber die zweitstärkste Kraft. Um den dritten Platz rangeln FDP (13,6 Prozent), die Mitte (13,3 Prozent) und die Grünen (13,2 Prozent). Letztere können ihren Wähleranteil nach den grossen Gewinnen bei den letzten Wahlen halten.

Parteistärke

Veränderungen in Prozentpunkten gegenüber den Wahlen 2019

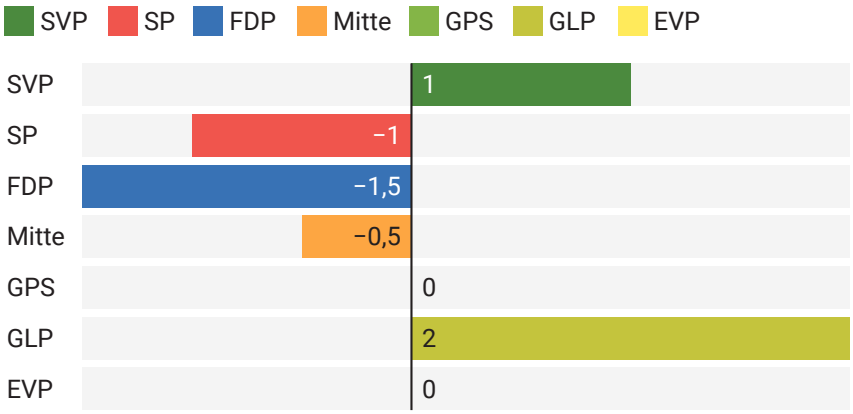

Umfrage vom 29. September bis 3. Oktober 2021, Fehlerbereich +/-1,3

Punktzahl pro Seite

Die Erklärungen

Wie Politgeograf Michael Hermann sagt, haben die Kernthemen der SVP – Europa und Migration – bei den Wählenden zwar an Dringlichkeit verloren. Die SVP habe sich zuletzt aber oft alleine gegen alle anderen Parteien gestellt, etwa beim CO_2-Gesetz oder bei den Corona-Massnahmen: «Das hat ihr wieder ein stärkeres Profil gegeben – insbesondere, weil für einen Teil der Gesellschaft das Thema Freiheitsrechte wichtiger geworden ist und die SVP am meisten dafür steht», so Hermann zu SRF. Der Zuwachs der GLP, die sich immer klar hinter die behördlichen Corona-Massnahmen gestellt hat, zeigt laut Hermann wiederum, dass «die grüne Welle nicht einfach vorbeigeht».
Die Freisinnigen hingegen befänden sich in einer ungemütlichen «Sandwich-Situation». Sie leiden unter der zweifachen Konkurrenz: links von der GLP und rechts von der SVP. Zudem sei die Partei bei wichtigen Themen wie den Corona-Massnahmen oder dem CO_2-Gesetz nicht geschlossen aufgetreten.

Quelle: 20 minuten, 15. Oktober 2021, Autor: Daniel Waldmeier

1 Lesen Sie den vorliegenden Text und kreuzen Sie an, welche Aussagen laut Text richtig respektive falsch sind oder welche im Text nicht erwähnt werden.

Aussage	Richtig	Falsch	Im Text nicht erwähnt
Das Wahlbarometer zeigt die Parteienstärken zur Zeit der letzten Wahlen.	☐	☐	☐
In zwei Jahren werden wieder Wahlen stattfinden.	☐	☐	☐
Die Freiheitsrechte sind der GLP sehr wichtig.	☐	☐	☐
Die Freisinnigen essen gerne Sandwich.	☐	☐	☐
Die SVP hat dank der Pandemie wieder ein stärkeres Profil bekommen.	☐	☐	☐
Die FDP war sich in letzter Zeit bei allen Themen innerhalb der Partei einig.	☐	☐	☐

3 P, je 0.5 P

2 Studieren Sie nun auch die Grafik des Artikels und ergänzen Sie den vorliegenden Lückentext.

In der Grafik können wir die _____ der Parteistärken gegenüber den Wahlen 2019 ablesen. Da es sich aber lediglich um eine Umfrage handelt, können Fehler im Bereich von +/– _____ vorkommen. Die Parteien SP, Mitte und FDP erreichen _____ Wähleranteil als vor zwei Jahren. Die Grünen sowie die EVP _____. Die Umfrage wurde während 5 Tagen Ende _____ und Anfang _____ durchgeführt.

3 P, je 0.5 P

Punktzahl pro Seite

3 Zwei Parteien legen laut der Umfrage zu. Schreiben Sie diese Parteien hin und erklären Sie in je einem korrekten Satz einen möglichen Grund, warum die jeweilige Partei stärker geworden ist.

Partei	Erklärung

3 P
je 0.5 P für Partei-bezeichnung;
je 0.5 P Inhalt der Aussage,
je 0.5 P für korrekte Sätze = 1.5 P pro Aufgabe

Parteien

4a Ordnen Sie die vier Bundesratsparteien in das Rechts-links-Schema ein. Schreiben Sie die Partei-Abkürzungen an die entsprechende Stelle der Links-rechts-Achse.

links ⟷ **rechts**

2 P, je 0.5 P

4b Was bedeutet jedoch «links» oder «rechts»? Schreiben Sie hinter jede Aussage, ob diese eher von einem linken Politiker (L) oder einer rechten Politikerin stammt (R).

Aussage	L oder R
Der Staat soll den Betrieben möglichst wenig dreinreden.	
Es kann nicht sein, dass Arbeitgeber*Innen auf Kosten der Arbeiter*Innen reich werden.	
Wir sollten mehr Geld in die Friedenspolitik investieren und weniger ins Militär.	
Steuererleichterungen ziehen neue Firmen an und helfen so der Wirtschaft.	

2 P, je 0.5 P

Punktzahl pro Seite

5 Die folgenden Parteien-Aussagen sind inhaltlich falsch.
Verbessern Sie diese Aussagen, indem Sie den jeweils markierten Satzteil/Begriff ersetzen.

Beispiel: anderen
Die Mitte fordert die ~~linken~~ Parteien auf, gemeinsam Lösungen zu finden, anstatt sich gegenseitig zu bekämpfen.

Die SVP setzt sich für ein unabhängiges Europa ein.

Die SP möchte den Frauenanteil in der Politik und der Wirtschaft beschränken.

Die FDP will durch höhere Steuern mehr Arbeitsplätze schaffen.

Die Förderung fossiler Energien hat für die Grünen erste Priorität. **2 P, je 0.5 P**

Smartspider

6a Beschriften Sie die drei Smartspider mit den Abkürzungen der entsprechenden Parteien.

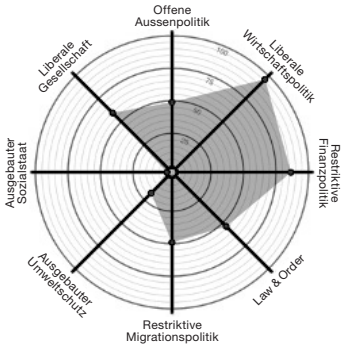

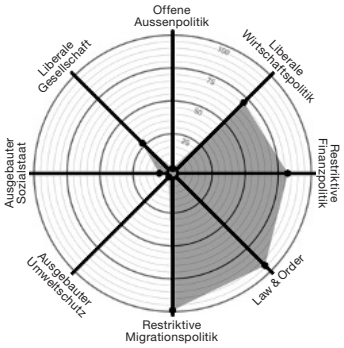

Partei: _____ Partei: _____ Partei: _____ **3 P, je 1 P**

Punktzahl pro Seite

6b Hier sehen Sie die Smartspider der Grünen Schweiz und der Grünliberalen Partei (glp). Erläutern Sie zu den vorgegebenen Themen in zwei korrekten Aussagen, worin sich diese beiden umweltbewussten Parteien unterscheiden.

Grüne

glp

Beispiel:
Restriktive Finanzpolitik — **Die glp möchte mit den Steuergeldern sparsamer umgehen als die Grünen.**

Wirtschaftspolitik:

Sozialstaat:

2 P
je 0.5 P für Inhalt
je 0.5 P für korrekte Sätze

Punktzahl pro Seite

6c Wählen Sie nun eine Partei aus und verfassen Sie einen Kommentar gemäss den folgenden Kriterien: 5 P

- Sie formulieren Ihre Meinung zur Partei mit drei unterschiedlichen Begründungen. 3 P; je 1 P
- Sie verwenden Satzverknüpfungen. 1 P
- Sie formulieren sprachlich korrekt. 1 P

Partei: _____

Ihr Kommentar

Punktzahl pro Seite